Dibujar una cicloide normal cuya ruleta tenga de radio 15 mm.

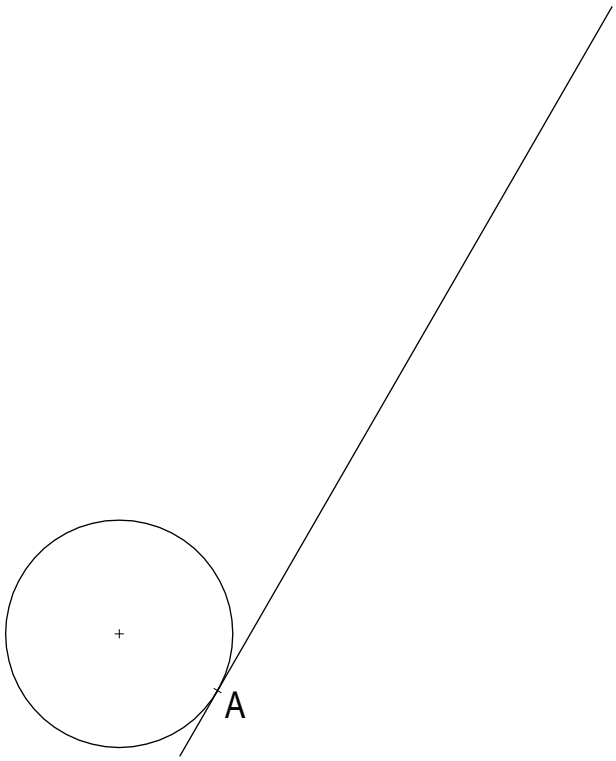

Dibujar una hipocicloide normal cuya ruleta tenga de radio 14 mm. y la directriz 40 mm de radio.

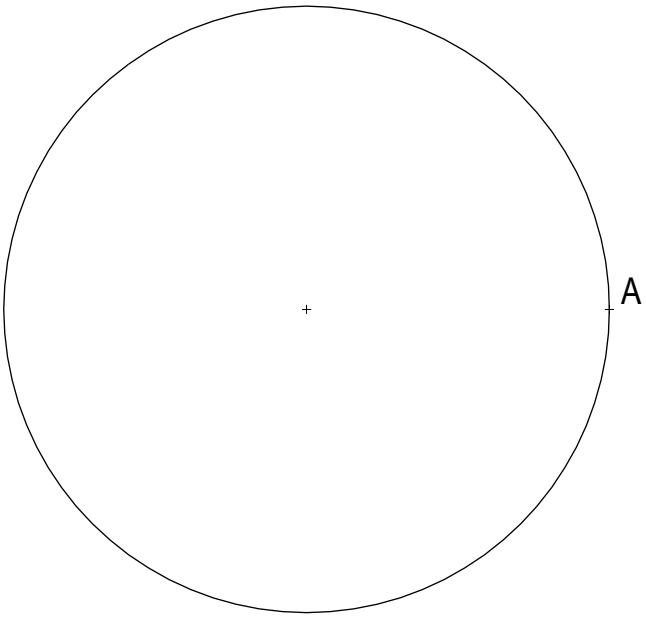

Dibujar una pericicloide normal cuya ruleta tenga de radio 38 mm y la directriz 15 mm.

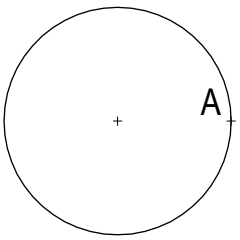

J. A. MARÍN GARRIDO
http://www.mipaginapersonal.movistar.es/web5/jamgpa
jamgpa@hotmail.es

FECHA: _____	ALUMNO / A : _____	
EJERCICIO Nº: 01	TEMA 06 CURVAS TÉCNICAS	