Determinar las trazas del plano definido por una recta horizontal h (h´, h´´) y un punto exterior A (A´, A´´).

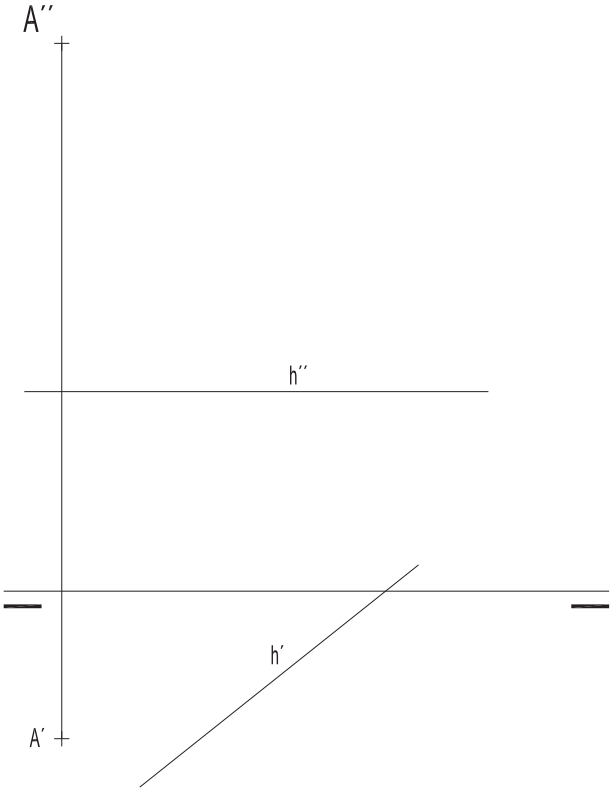

Determinar las trazas del plano definido por una recta frontal f (f´, f´´) y un punto exterior A (A´, A´´).

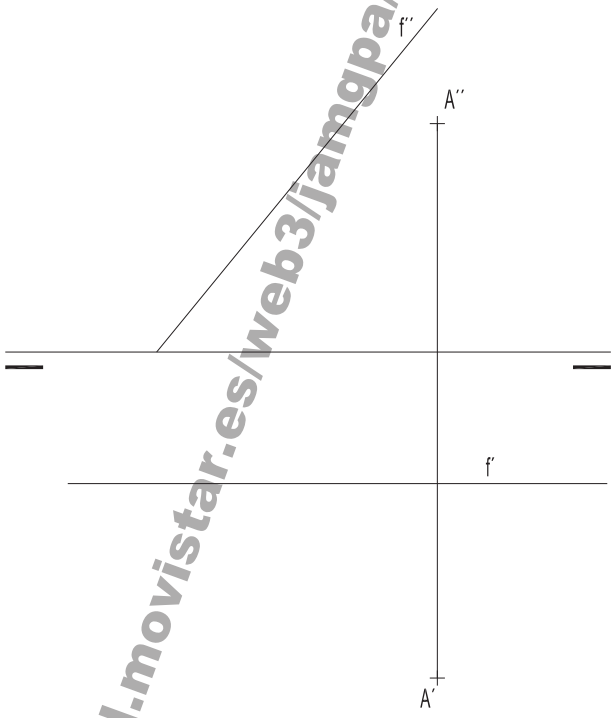

Determinar las trazas del plano definido por los puntos A (0, 1, 3), B (-2, 2, 1) y C (-4, 0, 2).

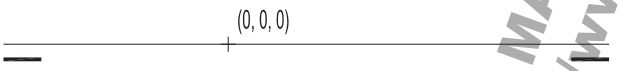

Determinar las trazas del plano definido por dos rectas que se cortan, sin determinar las trazas de las rectas.

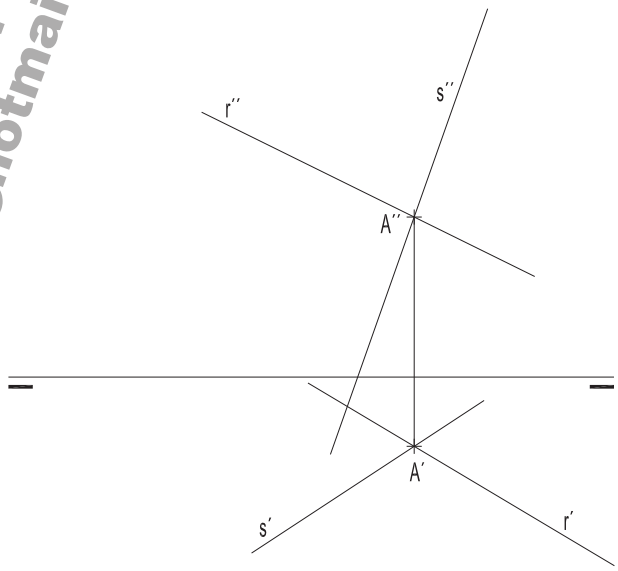

J. A. MARÍN GARRIDO
http://www.mipaginapersonal.movistar.es/web3/jamgpa/
jamgpa@hotmail.es

FECHA: _____	ALUMNO / A : _____	
EJERCICIO Nº: 02	TEMA 12 SISTEMA DIÉDRICO I	